BIENVENUE À L'ESPACE D'ORIENTATION DE ST GEOIRE EN VALDAINE

A l'aide de votre carte (qui est votre outil de déplacement), déplacez-vous au cœur du village de St Geoire en Valdaine pour découvrir les balises qui ont été installées à proximité des lieux remarquables. Sur chaque balise, une pince vous permettra de poinçonner la case qui correspond au numéro de balise. Une fois la balise trouvée, une question vous permettra de connaître en quoi ce lieu est particulier.

A l'aide de la légende et des symboles qui figurent sur la carte, orientez votre carte et repérez votre position ainsi que le cheminement que vous devez effectuer pour trouver les balises dans l'ordre imposé. Le point de départ est représenté par un triangle ▲ et chaque balise par un cercle ○ avec son numéro. C'est au centre de chaque cercle que se situe un élément caractéristique du terrain (point d'eau, angle de bâtiment, arbre...).

Tout au long du parcours, vérifiez la codification des poinçons : ⁘ ⁙

Bonne découverte !

PARCOURS D'ORIENTATION
PATRIMOINE ADULTE

NIVEAU : **FACILE** | DISTANCE : **4,5 KM** | DURÉE : **+/- 1H30**

DÉNIVELÉ : **130 M** | **10 BALISES**

○ Emplacement des balises

▲ Point de départ du parcours : parking de la station multi-rando

RECOMMANDATIONS

- Soyez discrets, des personnes vivent et travaillent au quotidien.
- Restez sur les itinéraires, ne coupez pas à travers les champs.
- Respectez les aires de stationnement et la réglementation.
- Ramassez vos déchets, ne laissez rien sur site.
- Soyez vigilant à la circulation dans Saint Geoire en Valdaine. Surveillez vos enfants. Utilisez les passages piétons.

SURICATE – SIGNALER UN PROBLÈME

L'application Suricate permet de signaler les problèmes que vous rencontrez quand vous pratiquez un sport de nature (erreur de balisage, besoin de sécurisation, conflit d'usage...), n'hésitez pas à l'utiliser.

INFORMATIONS

- **COMMUNE DE ST GEOIRE EN VALDAINE**
  www.saint-geoire-en-valdaine.com
- **OFFICE DU TOURISME PAYS VOIRONNAIS**
  www.paysvoironnais.info
- **COMITÉ DÉPARTEMENTAL DE COURSE D'ORIENTATION**
  www.cdco38.fr

isère LE DÉPARTEMENT — CDCO 38 — COURSE Orientation AURA

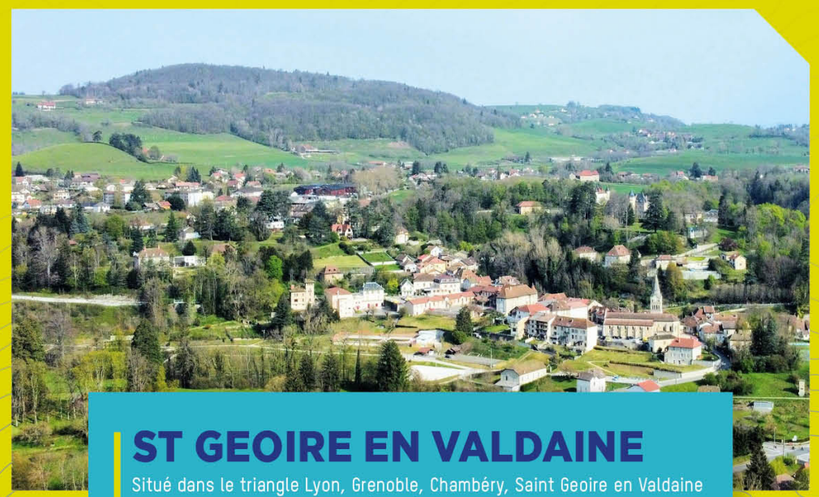

ST GEOIRE EN VALDAINE

Situé dans le triangle Lyon, Grenoble, Chambéry, Saint Geoire en Valdaine vous accueille au sein de la vallée de l'Ainan dans un cadre de vie propice aux balades historiques, sportives ou même gourmandes !

La commune regroupe sept châteaux et une église qui date du 11ème siècle. Les 2400 Saint Geoiriens y sont très attachés et participent tous à la bonne marche de ce village dynamique et plein de vie avec ses commerces, ses nombreuses associations et ses infrastructures sportives. Saint Geoire en Valdaine est aussi le point de départ de plusieurs randonnées et parcours trail ou VTT.

Après la découverte du parcours d'orientation, que les plus gourmands se rassurent, la biscuiterie, la brasserie et les autres commerces du village sauront vous combler !

SITES ÉQUIPÉS DE PARCOURS PERMANENTS D'ORIENTATION

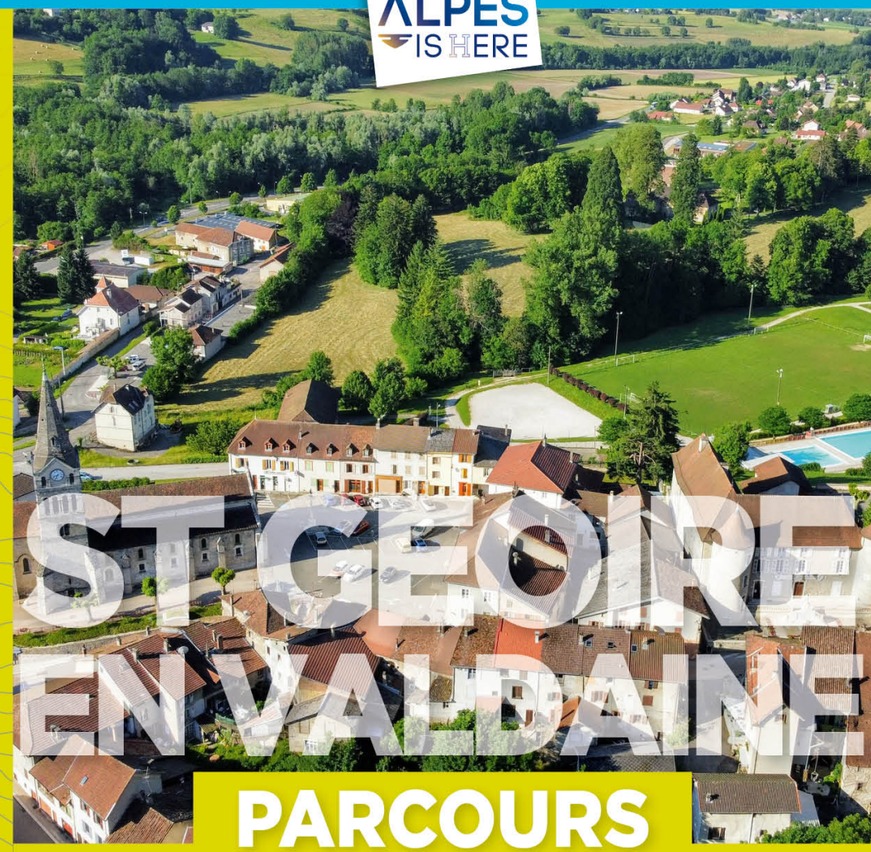

ST GEOIRE EN VALDAINE

PARCOURS D'ORIENTATION
PATRIMOINE ADULTE

À LA DÉCOUVERTE DE L'EGLISE ET DES 7 CHÂTEAUX DE SAINT GEOIRE EN VALDAINE

St GEOIRE en VALDAINE – Patrimoine. Nature. Dynamisme

RETROUVEZ TOUS LES AUTRES SITES D'ACTIVITÉS OUTDOOR SUR L'APPLICATION MOBILE **ISÈRE OUTDOOR**
ET TOUS LES AUTRES SITES DE COURSE D'ORIENTATION SUR LE SITE DU **COMITE DEPARTEMENTAL DE COURSE D'ORIENTATION www.cdco38.fr**

PARCOURS D'ORIENTATION
PATRIMOINE ADULTE

LEGENDE
- Bâtiment
- Propriété privée
- Parking, route
- Chemin
- Clôture
- Objets particuliers
- Bassin
- Prairie
- Haie
- Arbres isolés
- Courbe de niveau

N

échelle : 1/7500e
1 cm représente
75 m sur le terrain.
Dénivelé entre
2 courbes de niveau
5 mètres.

- Départ
- Balise
- Parking

BALISE 51
Haut des escaliers

1 CHÂTEAU DE LA LAMBERTIÈRE

C'est la famille de Guillaume Dode, né à Saint Geoire en 1775, qui fit construire le Château de La Lambertière, que vous pouvez voir au loin. Rayez dans la grille, les mots ci-dessous, en lien avec la vie de Dode. Grâce aux lettres restantes, reconstituez ensuite le mot mystère pour trouver la plus haute distinction de celui qui commença comme Lieutenant sous Napoléon Bonaparte.

Attention, une lettre peut être commune à plusieurs mots et les mots peuvent être aussi écrits de droite à gauche et de bas en haut.

NAPOLÉON	EMPIRE	HONNEUR	DODE
BATAILLES	GUILLAUME	LAMBERTIÈRE	EGYPTE
RHIN	ALLEMAGNE	VICOMTE	BRUNERIE
TUILES	ESPAGNE	VAUBAN	
CHÂTEAU	MALTE		

Réponse : _____

C	N	O	E	L	O	P	A	N	H	D
H	O	N	N	E	U	R	H	I	N	O
A	S	E	L	L	I	A	T	A	B	D
T	A	A	L	L	E	M	A	G	N	E
E	N	T	U	I	L	E	S	C	A	R
A	A	B	R	U	N	E	R	I	E	I
U	B	R	E	N	G	A	P	S	E	P
G	U	I	L	L	A	U	M	E	E	M
L	A	M	B	E	R	T	I	E	R	E
	V	I	C	O	M	T	E	M		L
E	T	P	Y	G	E	T	L	A	M	

BALISE 52
Mur

2 CHÂTEAU DE MONTCLA

Sur les 2 tours du Château, vous pouvez observer une fente verticale avec un orifice sur la partie inférieure. Appelée communément meurtrière, elle servait à se défendre contre l'éventuelle attaque d'un ennemi. Quelles armes pouvaient donc être employées ? *(Plusieurs réponses possibles)*

a. ☐ Une sarbacane **b.** ☐ Un arc
c. ☐ Une arbalète **d.** ☐ Une arme à feu

BALISE 53
Barrière

3 L'ÉGLISE SAINT GEORGES

Voici le logo du village, composé de 3 anges formant un triskèle.
Sur quelle partie extérieure de l'église peut-on le retrouver sous la forme d'un vitrail ?

a. ☐ L'abside (partie arrondie de l'église)
b. ☐ La sacristie (partie latérale de l'église)
c. ☐ Le porche (entrée)
d. ☐ La face sud

St GEOIRE en VALDAINE
Patrimoine, Nature, Dynamisme

BALISE 54
Clôture

4 CHÂTEAU DE CABAROT

Replacez les mots suivants dans la grille, puis remettez dans l'ordre les lettres numérotées afin de trouver un célèbre artiste peintre et céramiste à qui a appartenu le château de Cabarot, et dont vous pouvez apprécier quelques œuvres au Musée Dauphinois de Grenoble.

Cabarot, Couvent, Château, Longpra, Etergne, Moncla, Lambertière, Clermont, Rochette, Valdaine

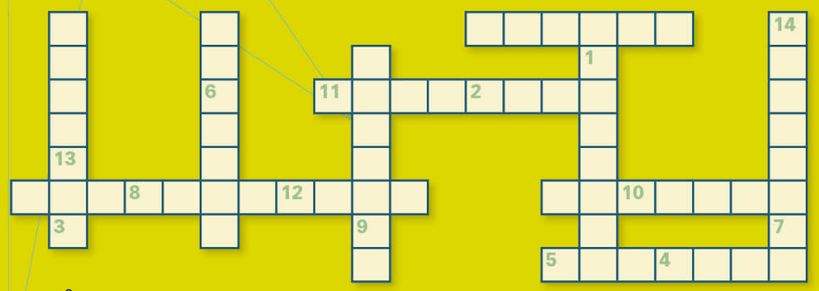

1	2	3	4	5	6	7	8	9	10	11	12	13	14

BALISE 55
Extrémité du chemin

5 CHÂTEAU DE CLERMONT

Le château de Clermont a été largement remanié à partir d'une ruine médiévale par la famille Michal-Ladichère après 1870. Cette famille d'industriels originaires de Grenoble a utilisé la force motrice de l'eau et la main-d'œuvre locale dans un domaine particulier. Lequel ?

a. ☐ Les papeteries **b.** ☐ Les cimenteries **c.** ☐ Les usines de tissage

BALISE 56
Angle du mur

6 CHÂTEAU DE LA ROCHETTE

Tournez le dos au portail et regardez la maison face à vous. Ses murs sont, sur la partie basse, construits en pierre. La partie haute est composée de terre prélevée à proximité.

Comment s'appelle ce type de construction que l'on retrouve beaucoup dans la région ?

a. ☐ Le béton banché **b.** ☐ Le pisé **c.** ☐ L'adobe

BALISE 57
Angle de cloture

7 CHÂTEAU DE L'ETERGNE

A la fin du Moyen Age, on commence à construire des maisons fortes comme celle de l'Etergne. Elles se distinguent des châteaux de par leurs moins importantes fortifications.
Alors que le Seigneur réside dans son château, à qui sont destinées ces maisons fortes ?
(Plusieurs réponses possibles)

a. ☐ Les chevaliers **b.** ☐ Les religieux
c. ☐ Les écuyers
d. ☐ Les cadets des familles nobles
e. ☐ Les serviteurs

BALISE 58
Extrémité du chemin

8 LE PIC ÉPEICHE

Ces trous visibles dans les arbres face à vous sont l'œuvre du pic épeiche. Grâce à son bec puissant et pointu, il donne des coups sur l'écorce des arbres afin de trouver des insectes cachés à l'intérieur des troncs.
Sa langue lui permet de harponner sa proie car elle :

a. ☐ est collante.
b. ☐ est munie de petits crochets sur sa pointe.
c. ☐ est collante et munie de petits crochets sur sa pointe.

BALISE 59
Poteau

9 CHÂTEAU DE LONGPRA

Quel est ce massif montagneux se trouvant face à vous, qui délimite le Val d'Ainan

a. ☐ Belledonne **b.** ☐ La Chartreuse **c.** ☐ Le Vercors

BALISE 60
Fontaine

10 LA VIEILLE FORGE

Remettez les lettres dans le bon ordre afin de retrouver le métier de celui qui vivait ici :

MARCHA FRATERNEL _____ _____

BRAVO !

Vour venez de finir le parcours d'orientation. Pour en savoir plus sur le parcours, rendez-vous sur le site de la commune : www.saint-geoire-en-valdaine.com

Réponses aux questions :
1-Maréchal ; 2-b, c, d; 3-c ; 4- Laurent Bouvier ; 5- c; 6-b ; 7- a, c, d ; 8-c ; 9-b ; 10- Maréchal-Ferrant

Carte de course d'orientation - 2021 / Réalisée par Franck Dechavanne / La reproduction de l'ensemble des supports cartographiques est autorisée pour l'usage unique de ce parcours permanent d'orientation et à l'exclusion de tout autre usage. Cet équipement a été mis en place avec l'assistance technique de la Ligue Auvergne Rhône Alpes de course d'orientation / Edition 2021